1. **Observa el dibuix que tens a continuació ("Croquis acotat"). Representa un PALET EUROPEU de fusta, com els que utilitzen moltes empreses per a emmagatzemar i transportar materials molt diversos. Escriu el nom d'alguns materials o objectes que hagis vist alguna vegada "paletitzats"** (embalats o transportats damunt d'un palet).

2. **Cerca una imatge d'un material "paletitzat" i enganxa-la en el requadre de la dreta.**

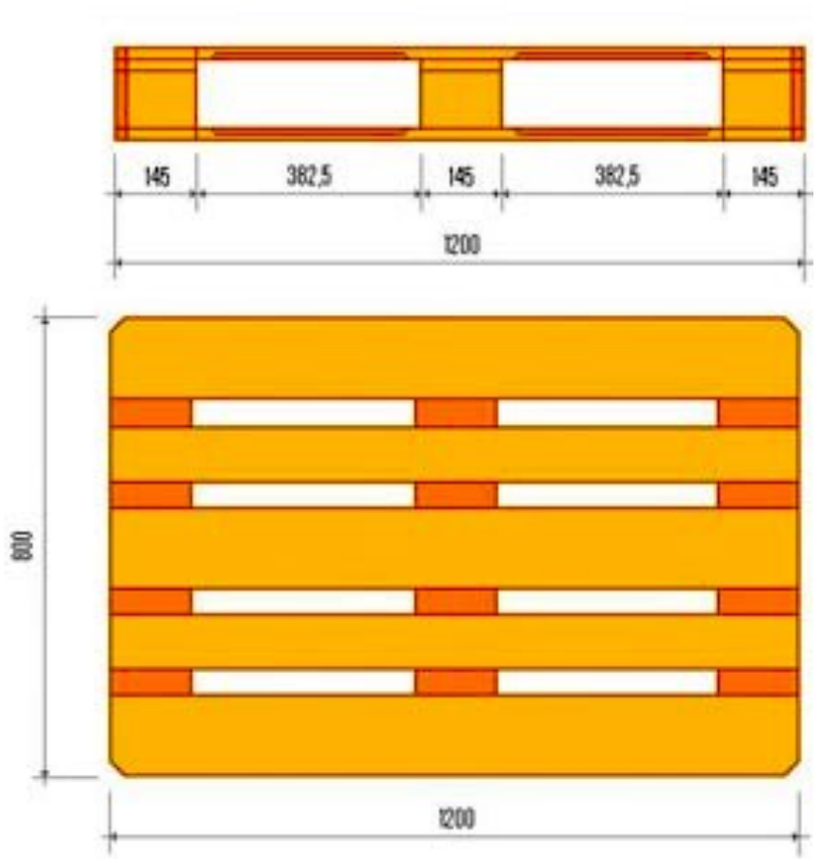

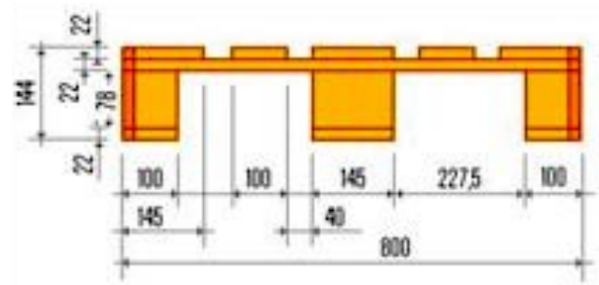

Croquis acotat

3. **Observa que el dibuix d'aquest PALET ha estat realitzat amb molta cura i precisió, i que ve acompanyat d'unes línies, fletxes i números que indiquen totes les seves mesures, expressades en milímetres. Omple la taula següent amb les mesures que se't demanen.**

Llargada total	
amplada total	
Alçada (gruix) total	
Mida d'amplada de la fusta travessera superior gran	
Gruix de la fusta travessera superior petita	
Mida de separació longitudinal entre els "tacs de fusta" (els de 145 mm)	

4. Observa aquests dibuixos. Els dos primers (a i b) són dues idees per a construir una tanca de fusta amb palets aprofitats . Abaix (il·lustració c) pots veure una representació **a escala** del nostre hort amb una d'aquestes idees aplicades al terreny i les **vistes** que n'obtindríem (en **sistema dièdric**). Pensa com faries tu una tanca de fusta per a l'hort (amb palets) i representa-la, tot i retallant les figures del full següent i enganxant-les sobre una cartolina de manera que obtenim les vistes corresponents en sistema dièdric.

a)

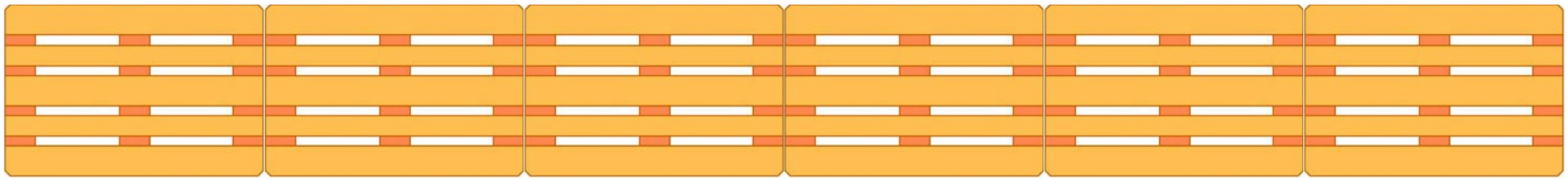

b)

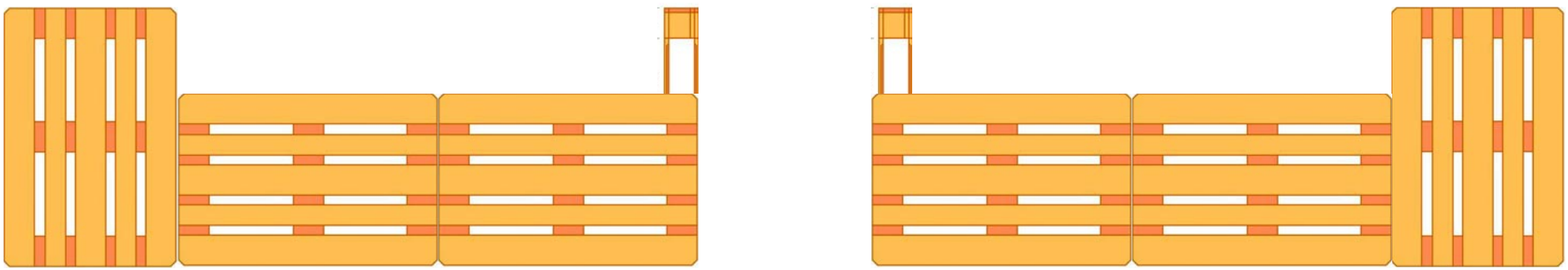
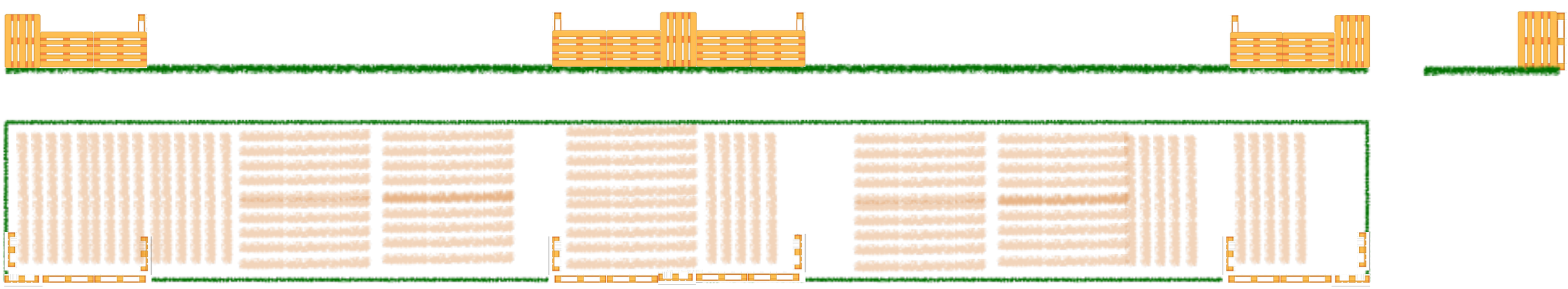
c)